امتحانات أبناؤنا في الخارج

ملف تقييم الأداء
باللغة الإنجليزية

الدور
الثاني
2026

الصف الأول الابتدائي

اسم الطالب : ..... رقم الجلوس : .....

سفارة جمهورية مصر العربية في دولة : .....

غير مصرح
بالكتابة فيها

إرشادات عامة

- يتم تحميل ملف التقييم للطالب باللغة الإنجليزية للطلاب المتقدمين على (النظام لغات إنجليزي) من خلال المنصة الالكترونية لأبنائنا في الخارج بوزارة التربية والتعليم :

http://saboard.emis.gov.eg

- يتم طباعة الملف ويقوم الطالب بالإجابة عن الأنشطة الموجودة.
- يتم رفع الملف بعد الانتهاء من الإجابة عليه على المنصة الالكترونية لأبنائنا في الخارج.
- يتم تحميل الملف ورفعه بعد استكماله بداية من وضعه على المنصة ولمدة أسبوعين.
- لا يتم ارسال أية ملفات تقييم ورقية ، ويتم التعامل من خلال المنصة الالكترونية فقط
- يتم تحميل الملف ورفعه من خارج جمهورية مصر العربية فقط.

اللغـــة العربيـــة

النشاط الأول

اخْتَرِ الحَرْفَ المُنَاسِب وَ أكْمَلْ الحَرْفَ النَّاقِص : (أَ _ مِّ _ بِ)

..نَا _ أُ.. ي _ أَ.. ي

النشاط الثاني

اقرأ ، ثم أجب : من درس " مَنْ لَوَّنَ الشَّوَارِع؟

"وأنا ذاهبة إلى المدرسة رأيت الأزهار ، حاولت قطف زهرة . "

اختر من بين القوسين :

١- "رأت فرح الأزهار وهي ذاهبة إلى ....." (البيت – المدرسة – المكتبة)

٢- "حاولت فرح أن ..... زهرة . " (تزرع – ترسم – تقطف)

٣- "الأزهار " بها لام (قمرية - شمسية)

اختر الكلمة المناسبة من بين الأقواس (هو – هي – إلى – في): –

- ألعب الكرة ..... النادي.
- أذهب .....المدرسة صباحًا.
- ..... يرسم فراشة بالقلم.
- ..... ترتب البيت .

النشاط الثالث

أ) رتِّب الحروف وكون اسم الصورة ، ثُمَّ اكتبه مكان النقط :



(حَـ _ لّ _ بْ)

.....

(بِّ _ قَـ _ لْ)

.....

(رْ _ بُـ _ جُ)

.....

ب) ضَعْ (هذا -- هذه - هؤلاء) مكان النقط :-

١ــ ..... شمس.

٢ــ ..... تلميذات .

٣- ..... دب .

English

1- Look and match the word with the picture.

1- flower

2- rain

3- tree

4- queen

2-Look and circle the correct picture.

1- sunny

2- grass

3- soup

English

3- Count and match

1- four

2- Three

3- Two



التربية الدينية الإسلامية

نشاط ١: ضع كل كلمة من الكلمات الآتية في مكانها الخالي كما جاءت في سورة " الفاتحة " :

(ٱلصِّرَٰطَ - وَإِيَّاكَ - ٱلْعَٰلَمِينَ - أَنْعَمْتَ - يَوْمِ - ٱلرَّحِيمِ)

قال الله ﷻ: ﴿بِسْمِ ٱللَّهِ ٱلرَّحْمَٰنِ ٱلرَّحِيمِ ۝١ ٱلْحَمْدُ لِلَّهِ رَبِّ ..... ۝٢ ٱلرَّحْمَٰنِ ..... ۝٣

مَٰلِكِ ..... ٱلدِّينِ ۝٤ إِيَّاكَ نَعْبُدُ ..... نَسْتَعِينُ ۝٥ ٱهْدِنَا ..... ٱلْمُسْتَقِيمَ ۝٦ صِرَٰطَ

ٱلَّذِينَ ..... عَلَيْهِمْ غَيْرِ ٱلْمَغْضُوبِ عَلَيْهِمْ وَلَا ٱلضَّآلِّينَ ۝٧﴾

نشاط ٢ : رتب أركان الوضوء الآتية ترتيبًا صحيحًا :

- غسل الرجلين إلي الكعبين .
- غسل اليدين إلي المرفقين .
- غسل الوجه .
- مسح الرأس .
- النية .

١- .....

٢- .....

٣- .....

٤- .....

٥- .....

نشاط ٣ : تخير الإجابة الصحيحة مما بين القوسين فيما يلي :

١- سيدنا إسماعيل عليه السلام ابن نبي الله : (يعقوب عليه السلام - موسي عليه السلام - إبراهيم عليه السلام)

٢- مصير من ثقلت موازينه يوم القيامة : (نار حامية - عيشة راضية - عذاب شديد)

٣- أول سنة من سنن الوضوء : (التسمية - غسل الوجه - مسح الأذنين)

٤- ألقى إخوة يوسف عليه السلام أخاهم يوسف عليه السلام في : (البحر - النهر - البئر)

٥- السورة التي تتحدث عن زلزال يوم القيامة سورة : (العاديات - الزلزلة - الغاشية)

نشاط ٤: صل من العمود (أ) ما يناسبه من العمود (ب) :

(أ)	(ب)
١- يجب علينا أن نكون	الأمور التي تفسد الوضوء وتبطله .
٢- تتكون الأسرة من	يجب عليه الوضوء .
٣- حب الأسرة وصلة الرحم سبب في	الأب والأم والإخوة والأخوات .
٤- الذي يريد الصلاة	بارين بوالدينا .
٥- نواقض الوضوء هي	رضا الله (تعالي)

النشاط الأول: قم بتلوين هذه الصورة واكتب عنواناً لها : -

النشاط الثاني : ضع الكلمات الصحيحة في المكان المناسب :-

(الخيرات - ملكوتك - السماوات)

١- "ليتقدس اسمك. ليأتِ ..... . لتكن مشيئتك "

٢- " فلنشكر صانع ..... الرحوم الله ."

٣- " أبانا الذي في ..... ليتقدس اسمك. "

النشاط الثالث: ضع علامة (√) أمام العبارة الصحيحة وعلامة (×) أمام العبارة غير الصحيحة : -

١ – كان الغراب يحضر الطعام لـ إيليا النبي كل يوم. ( )

٢- رأى نوح النبي شجرة مشتعلة بالنار ولا تحترق. ( )

٣- قدم المجوس هدايا للطفل يسوع ذهب ولبان ومر. ( )

النشاط الرابع: صل العبارات الأتية بما يناسبها من الصور المقابلة :-

١-أطاع نوح الله وأكمل بناء الفلك

٢- أسس الرب يسوع سر التناول في علية صهيون.

٣- سامح الرب يسوع الذين صلبوه.

٤- الله أرسل ملاكه وسد أفواه الأسود.

Mathematics

Activity 1

a) Which shape look like **?**

A

B

C

D

b) write a number in ☐

1) The number that combines 60 and 8 is ☐

2) The mathematical sentence 60 + ☐ = ☐

c) There are 3 red bicycles and 4 blue bicycles. How many bicycles are there in total?

= .....

Activity 2

a) complete

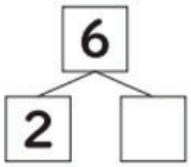

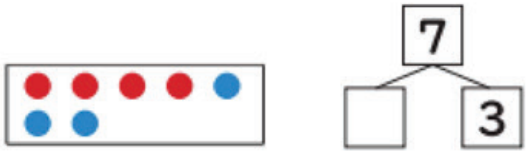

b) There are 9 Candies. You eat 3. How many are left? Write the mathematical sentence and the answer.

= .....

c) Which colored part is largest?

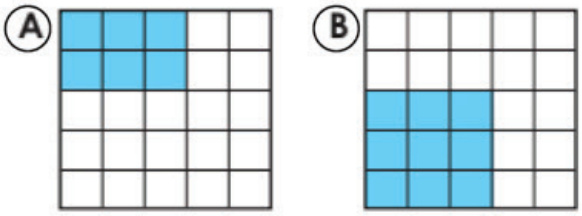

Activity 3

a) Look at the picture and answer.

1) How many children are standing in line?
2) What position is Hassan from the front?

b) Count each type of vegetable and Color them.

TOMATOES	ONIONS	CUCUMBERS	EGGPLANTS

c) <u>Circle the longer</u>.

54 47

d) What number goes in ☐ ?

50 — ☐ — 48 — 47 — 46 — ☐ — ☐

Science

Activity (1):

PLANT DIAGRAM

DIRECTIONS: Use the word bank to label the parts of the plant. Draw a line from the plant part to its function.

leaves | flower | roots | stem

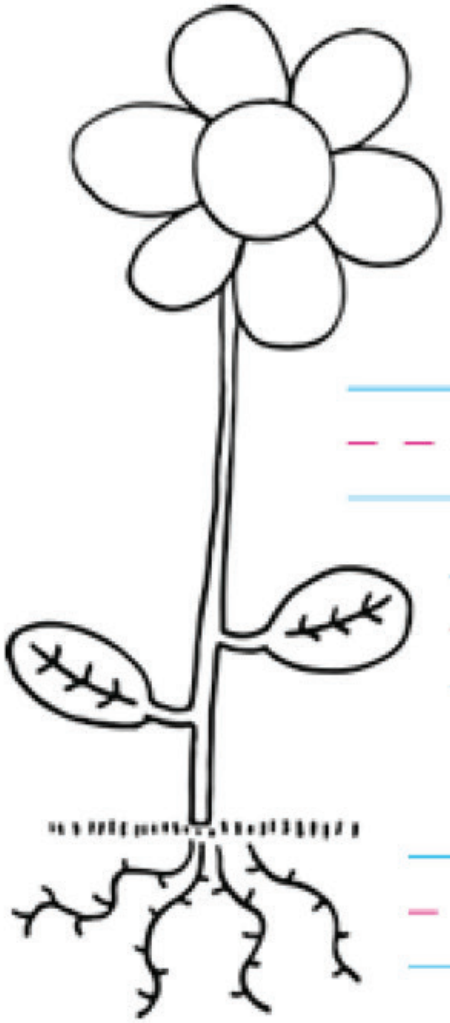

Holds the plant in the ground. Soaks water from the soil.

Holds the plant up. Carries water from the roots to the different parts of the plant.

Lets in air. Uses sunlight to make food.

Makes seeds.

Science

Activity (2):

DAILY DIET

Circle the healthy foods we can eat every day.
Complete the sentence.



_____

_____

_____ foods are healthy foods.

1. Look, read and circle



2. Write the words in the correct order

1. works – She – hospital – a – in.

.....

2. A – chef – kitchen – works – in – a.

.....

3. doctor – helps – A – people.

.....

3-Read and complete

have - sister - do

1- My ..... works as a teacher.

2- How ..... you go to school?

3- Do you ..... a brother?

4. Read and match.

1- My brother is riding	a- sunny
2- We buy meat	b- his bike
3- It is	c- at the butcher's

النشاط الأول :

أمامك مجموعة من الصور اكتب أمام كل صورة ما تعبر عنه :

	تم بناء هذا المعبد علي الضفة الغربية لنهر النيل تكريمًا للملكة .....
	تمثال أبو الهول يعد أكبر تمثال في العالم ويوجد في محافظة.....
	وسائل نقل .....
	وسيلة نقل .....

النشاط الثاني :

لك صديق يريد زيارة بلدك الحبيب مصر أي الأماكن تنصحه بزيارتها:

١- .....

٢- .....

٣- .....

٤- .....

النشاط الثالث : أنواع الموارد المائية

حدد أي الصور تعبر عن المياه العذبة وأي الصور تعبر عن المياه المالحة

مياه.....

مياه .....

النشاط الرابع :

أمامك عدة علامات هيروغليفية يتكون منها اسم عاصمة لمصر أسسها الملك مينا

هي .....

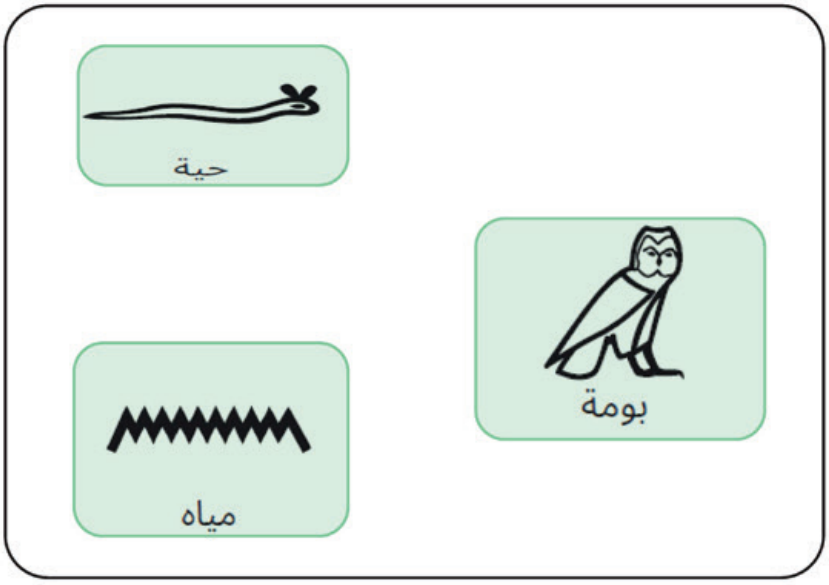

Draft

غير مصرح
بالكتابة فيها

ملف تقييم الأداء

باللغة الإنجليزية

الدور الثاني 2026

الصف الأول الابتدائي